# 第四屆桃園市長盃世界珠心算暨數學國際公開邀請賽

【 國小數學一年級組 】

◎選擇題： 30 題， 每題 10 分， 共 300 分

( ) 1. 數數看， 有幾根紅蘿蔔？

(1)5 (2)6 (3)7 (4)8

( ) 2. 數數看， 總共有幾把刀子？

(1)7 (2)8 (3)9 (4)10

( ) 3. 三角形是第一個圖形， 請問第 10 個圖形是什麼圖形？

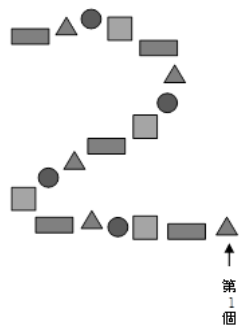


(1)長方形 (2)正方形 (3)圓形 (4)三角形

( ) 4. 「43」讀作？ (1)「ㄕㄧ ㄙㄢ」 (2)「ㄙㄟ ㄕㄧ ㄙㄢ」 (3)「ㄕㄧ ㄅㄚ」 (4)「ㄨㄟ ㄕㄧ ㄙㄟ」。

( ) 5. 請問小朋友手上有幾朵花？

(1) 5 朵 (2) 7 朵 (3) 9 朵 (4) 11 朵

( ) 6. 小明排在第七個， 誰排在他的後面？(1)阿花排在第三個 (2)小華排在第一個 (3) 小強排在第六個 (4)小夏排在第十個

( ) 7. 數數看， 哪個數量最少？



(1) (2) (3) (4) 。

( ) 8. 哪一條繩子的紋路最多？(1)  (2) (3) (4)

( ) 9. 小文買了 6 隻老鼠， 還要再買多少隻才會有 10 隻老鼠？

(1) 4 隻 (2)5 隻 (3)6 隻 (4)7 隻

( ) 10. 哪一組的數字是由大排到小？(1)7，8，9 (2)16，15，25 (3)19，21，10 (4)23，21，19

( ) 11. 在生活中， 哪一類東西通常最大？

(1)洗手檯 (2)汽車 (3)手表 (4)飛機

( ) 12. 數數看， 正方形有幾個？

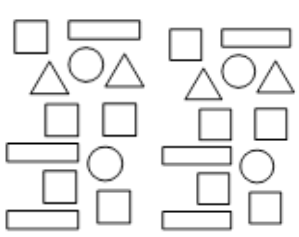

(1)10 個 (2)12 個 (3)14 個 (4)16 個

( ) 13. 哪一個圖形最大? (1) (2) (3) (4)

(　　) 14. 如果每一排車子都可以和第一排一樣停這麼多輛車，請問還可以停多少輛車？




(1)8 輛　(2)7 輛　(3)4 輛　(4)3 輛。

(　　) 15. 請問以下的 共有幾隻眼睛？



(1)15 隻　(2)12 隻　(3)14 隻　(4)10 隻。

(　　) 16. 請問下圖中有幾條 朝右邊？

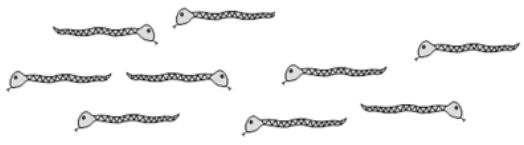

(1) 3 條　(2)4 條　(3)5 條　(4)9 條。

(　　) 17. 哪一條繩子最寬？

(1) 　(2) 　(3) 　(4) 。

(　　) 18. 請問有幾個星星？

(1)13 個　(2)14 個　(3)15 個　(4)16 個。

(　　) 19. 老師做了13個蝴蝶結，可以分成4個蝴蝶結和幾個蝴蝶結？

(1)10個　(2)9個　(3)8個　(4)7個。

(　　) 20. 上排比下排多出幾個圓形？

○○○○○○○○○○○
○○○○○○

(1)2 個　(2)4 個　(3)6 個　(4)8 個。

(　　) 21. 哪一條線不是直的？

(1) ——　(2) ——　(3) ——　(4) ——

(　　) 22. 小明在隊伍中排第4個，小華插隊排在第5個，請問小明後來排第幾個？

(1)第4個　(2)第5個　(3)第6個　(4)第7個

(　　) 23. 數數看，有幾隻腳？

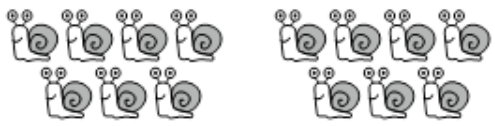

(1)10 隻　(2)20 隻　(3)30 隻　(4)沒有

(　　) 24. 下圖螃蟹共有幾隻腳？

(1)2 隻　(2)4 隻　(3)8 隻　(4)16 隻

(　　) 25. 右邊數來第 7 個圖案是什麼？

★☆□◎＊★☆□◎＊★☆□◎＊

(1) ＊　(2) ☆　(3) □　(4) ◎

(　　) 26. 不是長方形的有幾個？

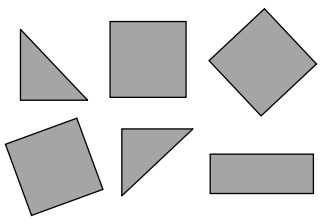

(1)6 個　(2)5 個　(3)4 個　(4)3 個

(　　) 27. 家裡有 15 顆蘋果， 媽媽再買 2 顆， 家裡總共會有多少顆？

(1)13 顆　(2)15 顆　(3)17 顆　(4)19 顆



(　　) 28. 有多少枝鉛筆？

(1)「ㄕㄥ ㄅㄚ」　(2)「ㄦㄟ ㄕㄥ」　(3)「ㄕㄥ ㄌㄧㄡˋ」　(4)「ㄦㄟ ㄕㄥ ㄦㄟ」

(　　) 29. 這張考卷上總共有幾隻貓咪？

(1)3隻　(2)5隻　(3)7隻　(4)9隻

(　　) 30. □ →14→15→16→17依照數字排列， □ 要填入哪個數字？

(1)14　(2)13　(3)12　(4)11